データの活用 ヒストグラム（6問）　版H

なまえ：＿＿＿＿＿＿＿＿＿＿＿＿　　日づけ：＿＿＿＿＿＿

ヒストグラムを見て答えましょう。

(1) ハンドボール投げの記録（m）

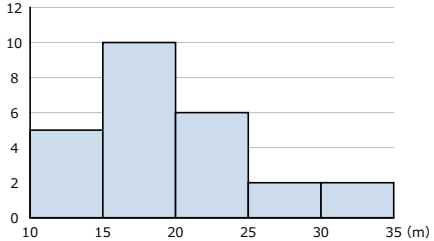

中央値がふくまれる階級を答えましょう。

答え：（　　）

(2) ハンドボール投げの記録（m）

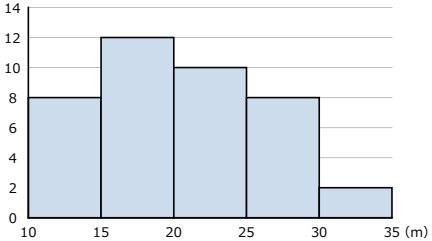

15m以上20m未満の人数を答えましょう。

答え：（　　）

(3) テストの点数（点）

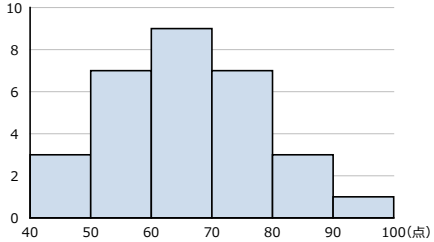

中央値がふくまれる階級を答えましょう。

答え：（　　）

(4) 通学時間（分）

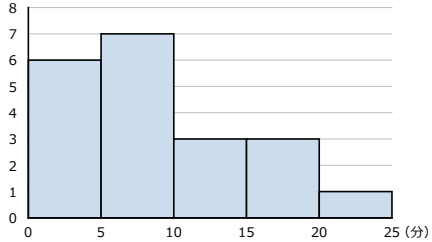

全部で何人ですか。

答え：（　　）

(5) 通学時間（分）

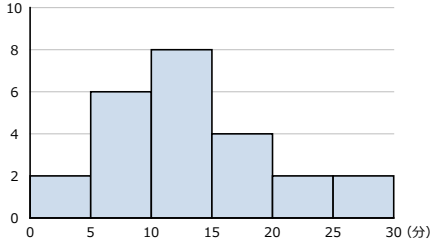

最頻値を求めましょう。

答え：（　　）

(6) ハンドボール投げの記録（m）

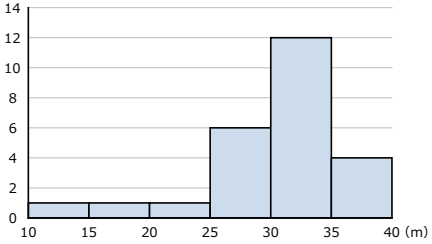

中央値がふくまれる階級を答えましょう。

答え：（　　）

データの活用 ヒストグラム（6問）　版Hの答え

※ ヒストグラムの柱の高さが度数です。中央値の階級は、左から人数を足していき、真ん中の人がいる柱を探します。

ヒストグラムを見て答えましょう。

(1) ハンドボール投げの記録（m）

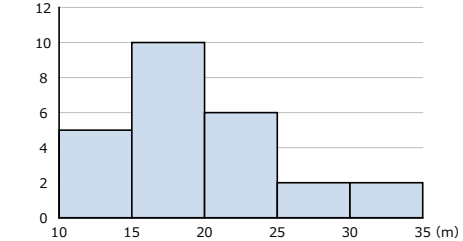

中央値がふくまれる階級を答えましょう。

答え：15m以上20m未満

(2) ハンドボール投げの記録（m）

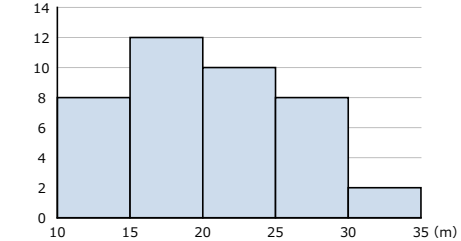

15m以上20m未満の人数を答えましょう。

答え：12 人

(3) テストの点数（点）

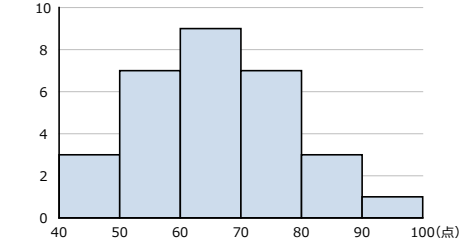

中央値がふくまれる階級を答えましょう。

答え：60点以上70点未満

(4) 通学時間（分）

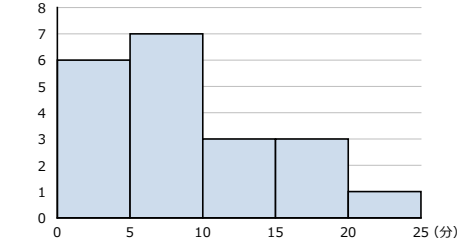

全部で何人ですか。

答え：20 人

(5) 通学時間（分）

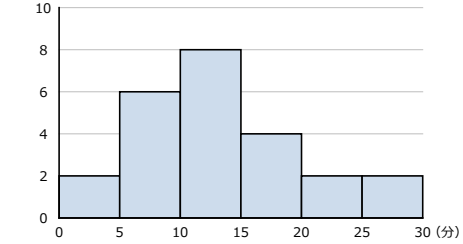

最頻値を求めましょう。

答え：12.5 分

(6) ハンドボール投げの記録（m）

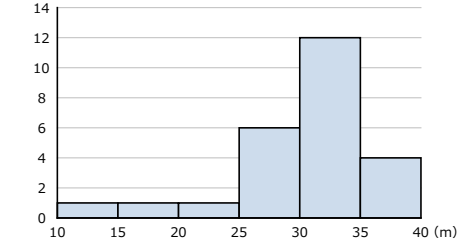

中央値がふくまれる階級を答えましょう。

答え：30m以上35m未満